Résolution de problèmes - 7

Date :

1 Tirobot a mis 3 bonbons rouges, 4 bonbons verts et 2 bonbons bleus dans le bocal.
Combien de bonbons y a-t-il dans le bocal ?



Ta phrase réponse

Il y a ☐ bonbons dans le bocal.

2 Tirobot et Robotine partent en voyage.
Robotine a 4 valises et Tirobot a 2 valises.
Combien de valises ont-ils en tout ?

Ta phrase réponse

Ils ont ☐ valises.

3 Tirobot a 5 bonbons. Il en donne 2 à Robotine.
Combien de bonbons reste-t-il à Tirobot ?



Ta phrase réponse

Il reste ☐ bonbons à Tirobot.

Résolution de problèmes - 8

Date :

1 Tirobot achète un paquet de 9 bonbons. Il en mange 3.
Combien de bonbons reste-t-il dans le paquet ?

Ta phrase réponse

Il reste ☐ bonbons dans le paquet.

2 Robotine fait des gâteaux. Elle prépare 5 gâteaux au chocolat et 4 gâteaux à la vanille.
Combien de gâteaux prépare-t-elle en tout ?

Ta phrase réponse

Robotine prépare ☐ gâteaux.

3 Tirobot a un paquet de 10 gâteaux. Il en mange 2.
Combien de gâteaux reste-t-il dans le paquet ?



Ta phrase réponse

Il reste ☐ gâteaux dans le paquet.